NACIONALINIS
EGZAMINŲ CENTRAS

2017

GEOGRAFIJA

2017 m. valstybinio brandos egzamino užduotis

Pakartotinė sesija

2017 m. birželio 30 d. Trukmė – 3 val. (180 min.)

NURODYMAI

1. Gavę užduoties sąsiuvinį ir atsakymų lapą, pasitikrinkite, ar juose nėra tuščių lapų arba kito aiškiai matomo spausdinimo broko. Pastebėję praneškite egzamino vykdytojui.
2. **Įsitikinkite, kad atsakymų lapas pažymėtas lipduku, kurio numeris sutampa su jūsų eilės numeriu egzamino vykdymo protokole.**
3. Atsakymus į užduoties klausimus pirmiausia galite rašyti užduoties sąsiuvinyje, kuriame yra palikta vietos juodraščiui. Jei neabejojate dėl atsakymo, iš karto rašykite atsakymų lape. **Vertintojams bus pateikiamas tik atsakymų lapas!**
4. Per egzaminą galite rašyti juodai rašančiu tušinuku, pieštuku, naudotis trintuku, liniuote, matlankiu ir skaičiuotuvu be tekstinės atminties.
5. Atsakymų lape rašykite **tik juodai rašančiu tušinuku**.
6. Saugokite atsakymų lapą (neįplėškite ir nesulamdykite), nesinaudokite trintuku ir koregavimo priemonėmis. Sugadintuose lapuose įrašyti atsakymai nebus vertinami.
7. Pasirinktus atsakymus į **I dalies** klausimus atsakymų lape pažymėkite kryželiu (žymėkite tik vieną atsakymo variantą). Suklydę atsakymą galite pataisyti atsakymų lape nurodytoje vietoje. **Atsakymai, kurie pažymėti neaiškiai, išeina už skirto langelio ribų, bus įvertinti *0 taškų*.**
8. Atsakymus į **II dalies** klausimus įrašykite tam skirtoje atsakymų lapo vietoje. Už ribų parašyti atsakymai nebus vertinami.
9. Neatsakę į kurį nors klausimą, nenusiminkite ir stenkitės atsakyti į kitus.
10. Atsakymų lape neturi būti užrašų ar kitokių ženklų, kurie leistų identifikuoti darbo autorių.
11. Pasibaigus egzaminui, užduoties sąsiuvinį galite pasiimti.

Linkime sėkmės!

© Nacionalinis egzaminų centras, 2017 m.

I dalis

Kiekvieno iš 01–25 klausimų teisingas atsakymas vertinamas vienu tašku. Į šiuos klausimus yra tik po vieną teisingą atsakymą.

01. Koks yra Žemės pusiaujo ilgis?

A 6 356 km
B 12 712 km
C 20 037 km
D 40 075 km

02. Kuris Žemės pusrutulis **nėra** matomas šiame paveiksle?

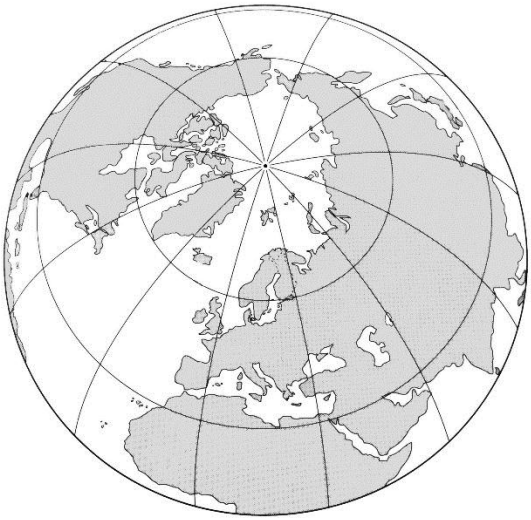

A Pietų
B Rytų
C Šiaurės
D Vakarų

03. Koks yra stačiakampiu pažymėtos vietos absoliutusis aukštis[1] (virš jūros lygio)?

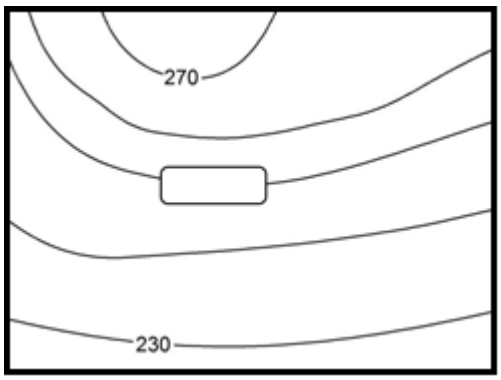

A 240 m
B 245 m
C 250 m
D 260 m

04. Kuriame Lietuvos etnografiniame regione gyvena daugiausia lenkų tautybės žmonių?

A Aukštaitijoje
B Dzūkijoje (Dainavoje)
C Suvalkijoje (Sūduvoje)
D Žemaitijoje

[1] absoliutusis aukštis – абсолютная высота (абсолютная отметка) – wysokość bezwzględna

05. Kuris krantų tipas pavaizduotas kartoschemoje ir aprašytas tekste?

Toks krantas pasižymi išilgai kranto nusidriekusiomis[1] *ilgomis salomis ir lygiagrečiai su pakrante ištįsusiais kūjo pavidalo pusiasaliais. Tai yra geologinėje praeityje nugrimzdusių kalnų keteros, viršūnės.*

Pagal leid. R. Šalna ir kt., „Gaublys. Gamtinė geografija“, vadovėlis 11–12 kl., Didakta, 2011.

A Dalmatiškasis
B Fiordinis
C Riasinis
D Ščerinis

06. Kurių valstybių teritorijos yra **tik** sausumoje?

A Albanijos, Belgijos ir Slovakijos
B Austrijos, Makedonijos ir Ukrainos
C Baltarusijos, Čekijos ir Šveicarijos
D Bulgarijos, Kroatijos ir Vengrijos

07. Kaip vadinami paveiksle rodyklėmis pavaizduoti pastovūs vėjai?

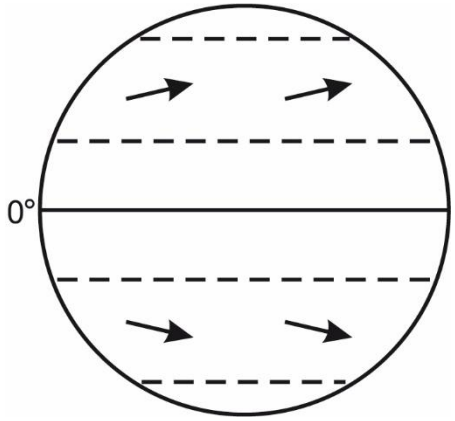

A Pasatai
B Poliariniai vėjai
C Rytų vėjai
D Vakarų vėjai

08. Kokie pagal kilmę yra aprašomi Lietuvos ežerai?

Šių ežerų dubenis išplovė ledyninės upės. Jos vertėsi triukšmingais kriokliais nuo ledyno pakraščio, smuko į plyšius – šulinius ir jau po ledu gremžė[2] *gilių duobių virtines*[3]*. Taip gimė mūsų gilusis Tauragnas, Asveja, Sartai ir daug kitų Lietuvos ežerų.*

Pagal leid. K. Kilkus, „Ežerai. 119 Lietuvos ežerų“, Alma Littera, 2013.

A Dubakloniniai (rininiai)
B Ledo luisto guolio
C Liekaniniai
D Senvaginiai

[1] nusidriekti – растянуться, простереться – rozciągać się, rozpościerać się
[2] gremžti – скоблить, скрести – zeskrobać
[3] virtinė – вереница – łańcuch, pasmo

09. Kuris iš šių rodiklių **nėra** demografinis?

A Kūdikių mirtingumas
B Natūralusis gyventojų prieaugis
C Registruoti bedarbiai
D Vidutinė gyvenimo trukmė

10. Kuri iš šių Lietuvos rajonų savivaldybių ribojasi su dviem valstybėmis?

A Lazdijų
B Skuodo
C Šakių
D Vilniaus

11. Koks apytikslis didžiausias Antarktidos ledo skydo storis pavaizduotas paveiksle?



Pagal leid. „Zerbrechliche Erde. Wie Natur und Mensch die Welt verändern“, National Geographic Deutschland, Hamburg, 2007.

A 2 km
B 3 km
C 4 km
D 7 km

12. Koks yra svarbiausias Volgos upės mitybos šaltinis?

A Lietaus vanduo
B Požeminis vanduo
C Tirpstanti ledo danga
D Tirpstantis sniegas

13. Kurios atslenkančios oro masės vyrauja Lietuvoje?

A Arktinės jūrinės
B Atogrąžų žemyninės
C Vidutinių platumų jūrinės
D Vidutinių platumų žemyninės

14. Naudodamiesi Australijos gyventojų tankio žemėlapiu, nustatykite, kuriose šios šalies valstijose dėl palankaus klimato yra susitelkę daugiausia gyventojų.

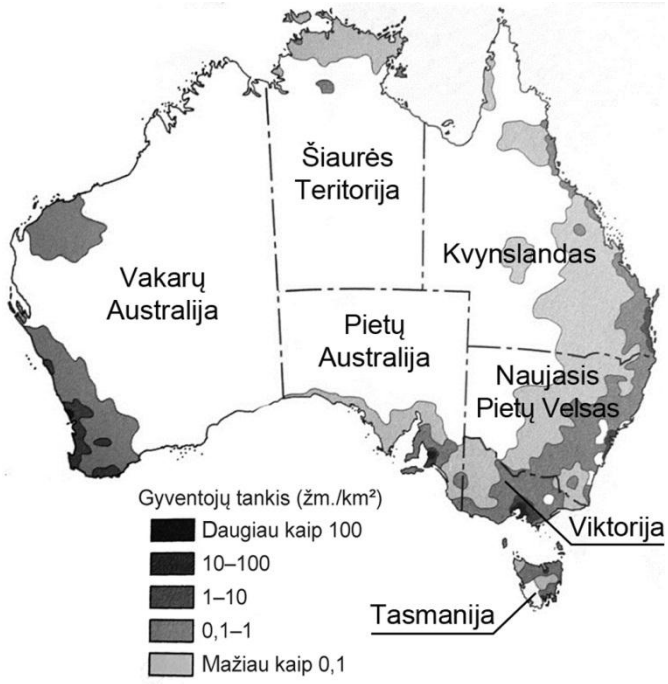

A Kvynslande ir Šiaurės Teritorijoje
B Naujajame Pietų Velse ir Viktorijoje
C Pietų Australijoje ir Šiaurės Teritorijoje
D Vakarų Australijoje ir Pietų Australijoje

Pagal leid. B. Haberlag, „Sicher ins Zentralabitur“, Ernst Klett Verlag GmbH, Stuttgart, 2015.

15. Žemėlapyje pavaizduotas vieno mėnesio vidutinis kritulių kiekis Afrikoje. Kurio mėnesio?

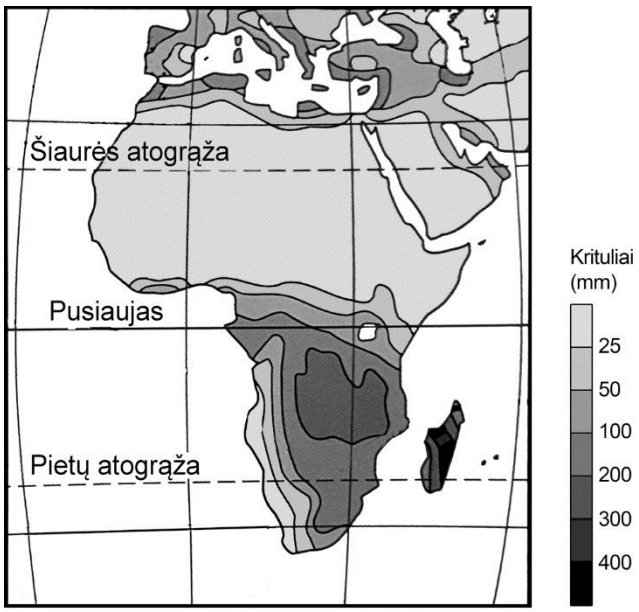

A Liepos
B Kovo
C Rugsėjo
D Sausio

Pagal leid. „Haack Weltatlas“, Klett-Perthes Verlag GmbH, Gotha, 2007.

16. Kuri iš šių valstybių **nėra** konstitucinė monarchija?

A Danija
B Jungtinė Karalystė
C Švedija
D Vatikanas

17. Remdamiesi izohipsų (horizontalių) išsidėstymu, nustatykite, į kurią kalvą iš pradžių teks kopti stačiai, o maždaug nuo pusiaukelės eiti bus gerokai lengviau.



A **B** **C** **D**

Pagal leid. „Landid og Landakortin“, Namsgagnastofnun, Reykjavik, 1990.

18. Kuria raide (A, B, C ar D) pažymėtos geografinės koordinatės yra užrašytos teisingai?

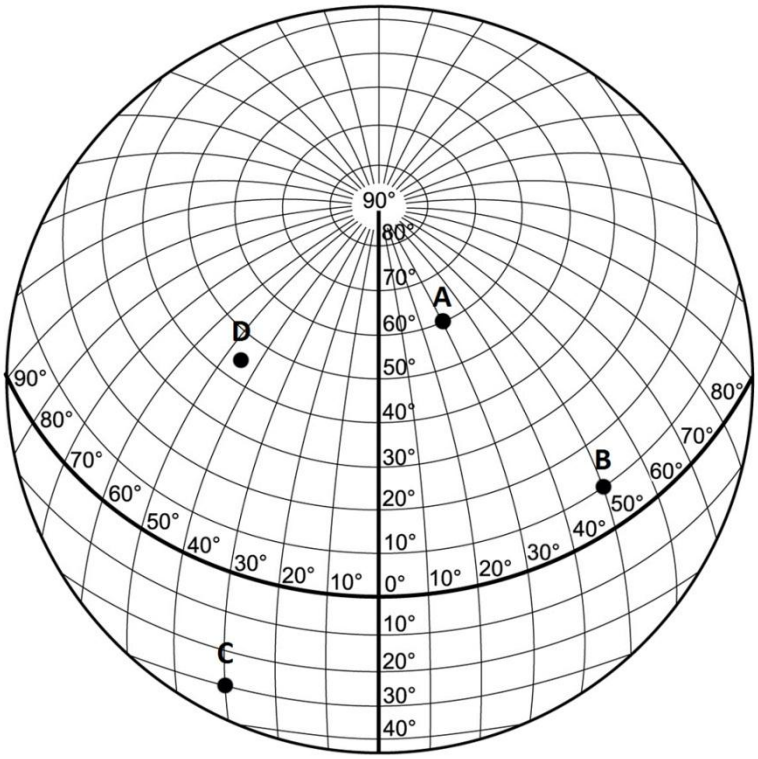

A 30° š. pl. ir 60° r. ilg.
B 10° p. pl. ir 50° r. ilg.
C 30° p. pl. ir 30° v. ilg.
D 45° š. pl. ir 45° r. ilg.

19. Kuris migracijos tipas būdingas Persijos įlankos regionui?

A Deportacija
B Laikinoji migracija
C Nuolatinė migracija
D Repatriacija

20. Remdamiesi žemėlapiu, nustatykite, kiek maždaug kilometrų yra nuo Velykų salos iki šiauriausio Polinezijos taško.

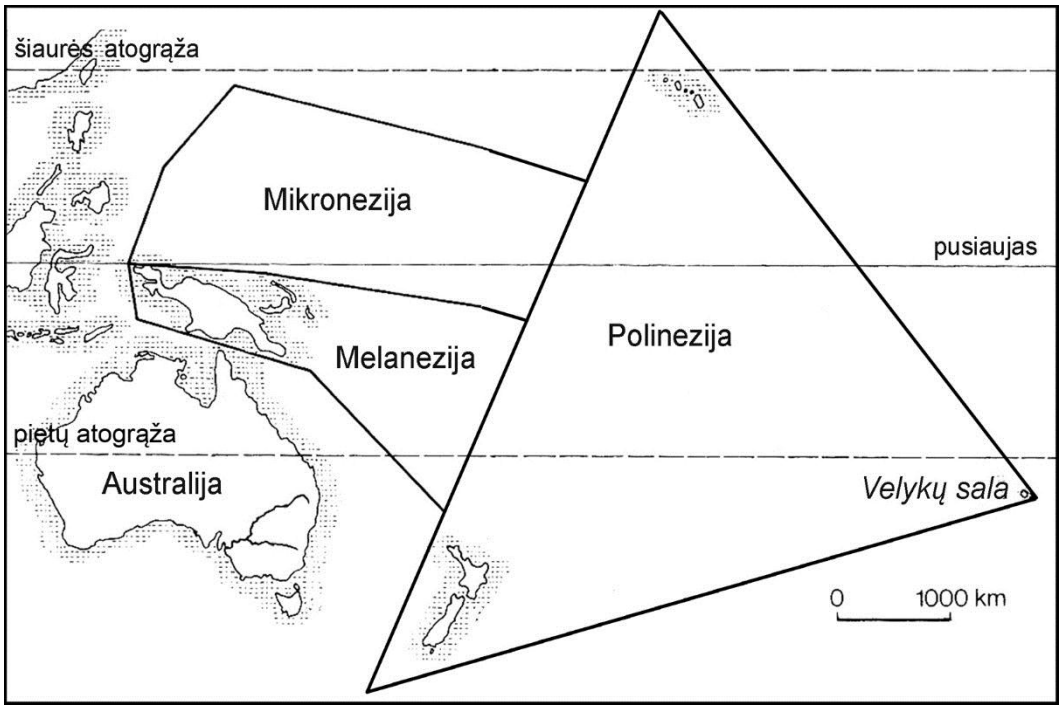

A 6 500 km
B 6 000 km
C 5 300 km
D 4 300 km

Pagal leid. „Geographie 1. Kurz und klar“, Auer Verlag, Dönauworth, 2000.

21. Remdamiesi pateikta tam tikros valstybės gyventojų amžiaus ir lyties piramide, nustatykite, kuris teiginys apie šios valstybės ateitį yra **neteisingas**.

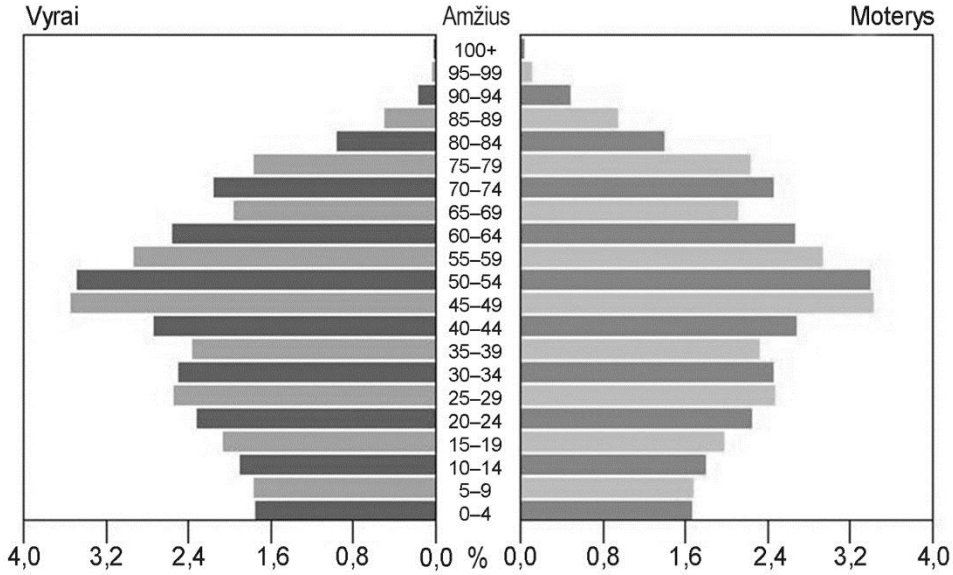

Pagal https://populationpyramid.net

A Didės mokesčių našta dirbantiesiems.
B Didės senyvo amžiaus žmonių dalis.
C Trumpės vidutinė gyvenimo trukmė.
D Trūks darbingo amžiaus žmonių.

22. Daugiausia bananų į Lietuvą importuojama iš Lotynų Amerikos šalių. Kuris žemės ūkio tipas vyrauja šiose šalyse?

A Intensyvusis natūrinis[1] ūkis
B Ekstensyvusis ūkis
C Natūrinis žemės ūkis
D Prekinis plantacijų ūkis

23. Kurio ūkio sektoriaus reikšmė per diagramoje nurodytą laikotarpį sumažėjo labiausiai?

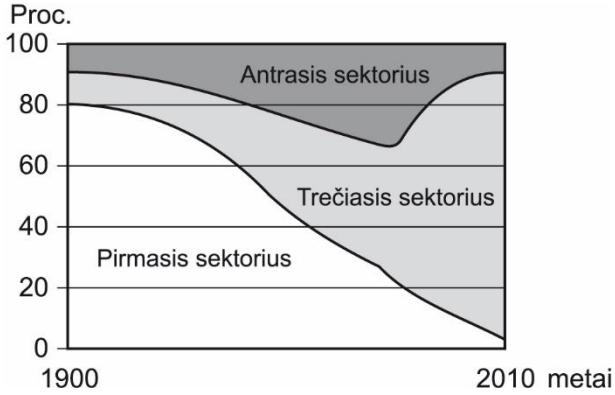

A Bioprodukcinio
B Paslaugų
C Pramonės
D Žinių ir informacijos

24. Kurioje eilutėje teisingai nurodytos problemos, atsirandančios dėl per didelio gyventojų tankio Vakarų Europoje ir Pietų Azijoje?

	Vakarų Europoje	Pietų Azijoje
A	Dažni elektros tiekimo sutrikimai.	Būstų trūkumas.
B	Antisanitarinės sąlygos.	Spūstys[2] gatvėse ir greitkeliuose.
C	Lūšnynų gausa.	Elektros tiekimo sutrikimai.
D	Spūstys gatvėse ir greitkeliuose.	Lūšnynų gausa.

25. Kuriame pasaulio regione turistų skaičiaus prieaugis (proc.) nuo 1995 m. iki 2020 m. (prognozuojama) bus mažiausias?

	Turistų skaičius, mln.			
	1995 m.	2000 m.	2010 m.	2020 m.
Pasaulis	565	675	940	1561
Afrika	20	27	49	77
Amerika	110	128	150	282
Azija ir Okeanija	85	110	204	397
Europa	336	386	477	717
Artimieji Rytai	14	24	60	88

Pagal World tourism organization LINWTO

A Afrikoje
B Amerikoje
C Azijoje ir Okeanijoje
D Europoje

[1] natūrinis – натуральный – naturalny
[2] spūstys – пробки, заторы – korki, zatory

II dalis

26 klausimas. Naudodamiesi šaltiniais (A ir B) bei žiniomis, atlikite užduotis.

A šaltinis. *Sumodeliuotas naktinis Žemės vaizdas iš kosmoso*

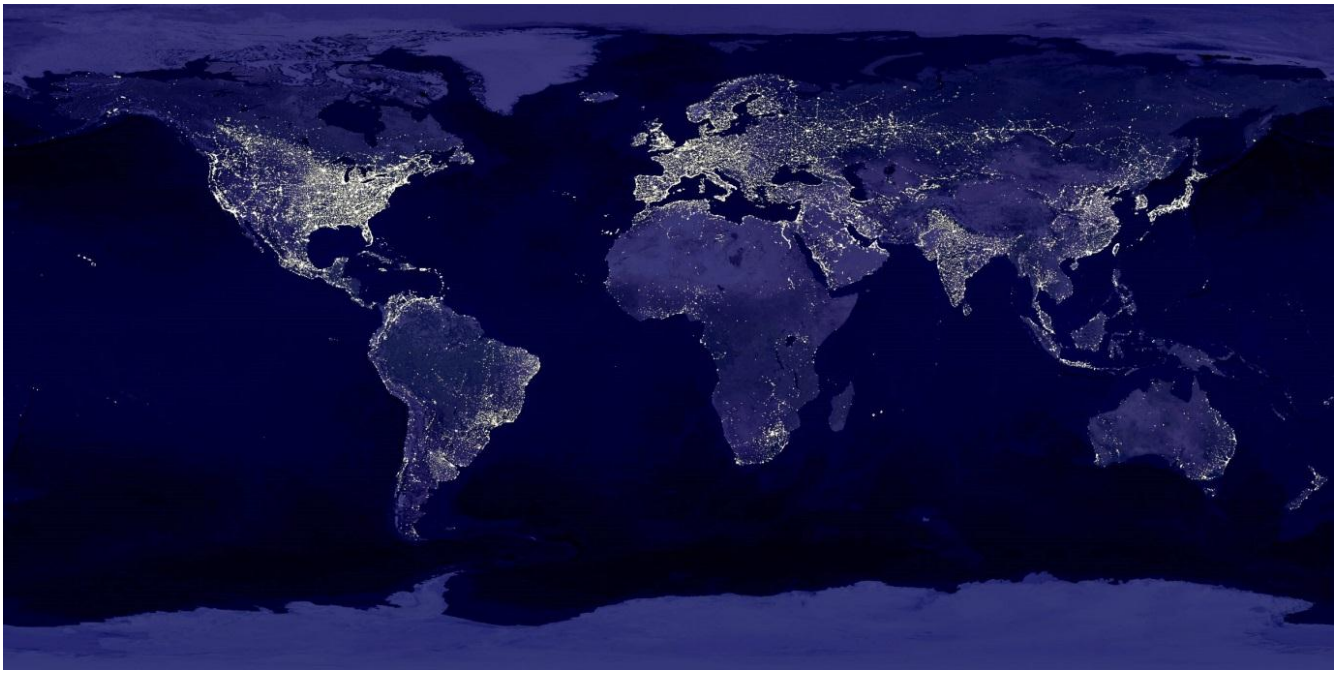

http://visibleearth.nasa.gov

B šaltinis. *Elektros energijos suvartojimas pasaulio valstybėse 1 gyventojui (MWh) 2013 m.*

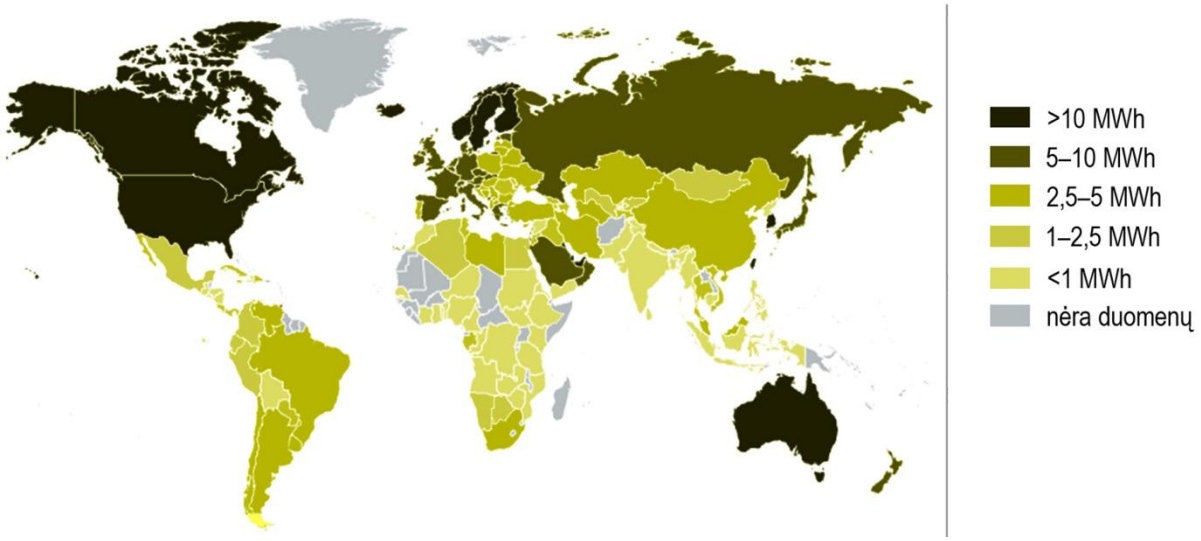

Pagal http://energyatlas.iea.org

26.1. A šaltinyje galima matyti, kurios Žemės teritorijos apgyvendintos tankiai, o kurios – retai. Paaiškinkite, kas leidžia taip teigti.

Juodraštis

.....

.....

(1 taškas)

26.2. Remdamiesi A ir B šaltiniais, įvardykite po vieną tankiai ir retai gyvenamą Pietų Amerikos sritį. Pateikite po vieną gamtinę ir visuomeninę tokio gyventojų pasiskirstymo priežastį.

Juodraštis

Tankiai gyvenama sritis .....

Priežastys:

Gamtinė .....

Visuomeninė .....

Retai gyvenama sritis .....

Priežastys:

Gamtinė .....

Visuomeninė .....

(6 taškai)

26.3. Islandijoje elektros energijos vartojimas 1 gyventojui yra didžiausias pasaulyje. Nurodykite dvi priežastis, kodėl taip yra.

Juodraštis

1. .....

2. .....

(2 taškai)

26.4. Palyginę A ir B šaltinius bei remdamiesi savo žiniomis, įvardykite, kuriame Azijos regione gyventojų tankis yra labai didelis, bet elektros vartojama mažai. Paaiškinkite tokį skirtumą.

Juodraštis

Regionas .....

Paaiškinimas .....

.....

.....

(2 taškai)

27 klausimas. Naudodamiesi žemėlapiu ir žiniomis, atlikite užduotis.

Vidutinis metinis Pasaulio vandenyno paviršiaus vandens druskingumas (promilėmis)

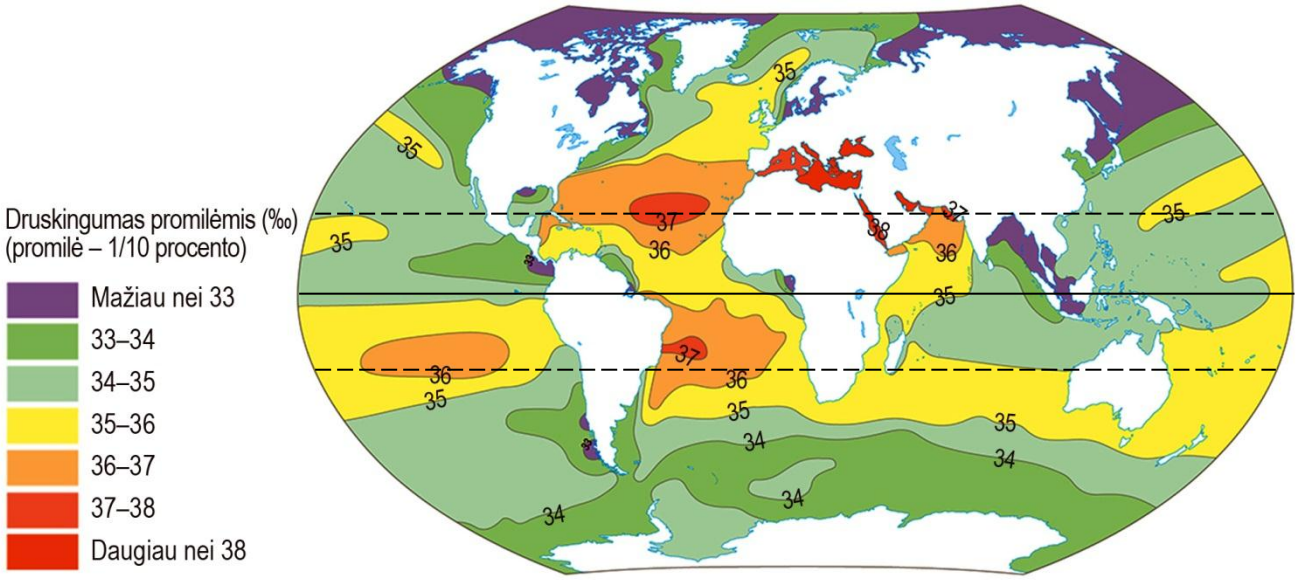

http://smp2014ge.ugdome.lt

27.1. Kuriai Žemės sferai priskiriamas Pasaulio vandenynas?

Juodraštis

.....

(1 taškas)

27.2. Kurio vandenyno paviršiaus vandens druskingumas yra mažiausias?

Juodraštis

.....

(1 taškas)

27.3. Įvardykite du veiksnius, lemiančius vandenynų ir jūrų paviršiaus vandens druskingumą.

Juodraštis

1. .....

2. .....

(2 taškai)

27.4. Paaiškinkite, kodėl Atlanto vandenyno šiaurinėje dalyje 35 ‰ izohalina išsigaubia toli į šiaurę.

Juodraštis

.....

(1 taškas)

27.5. Kodėl Pasaulio vandenyno druskingumas ties pusiauju mažesnis negu ties atogrąžomis?

Juodraštis

.....

.....

(1 taškas)

27.6. Kodėl paviršiaus vandens druskingumas Bengalijos įlankoje mažesnis negu Raudonojoje jūroje?

Juodraštis

.....

(1 taškas)

28 klausimas. Naudodamiesi šaltiniais (A, B ir C) bei žiniomis, atlikite užduotis.

A šaltinis. *Lietuvos gyventojų amžiaus prognozė 2025 metams*

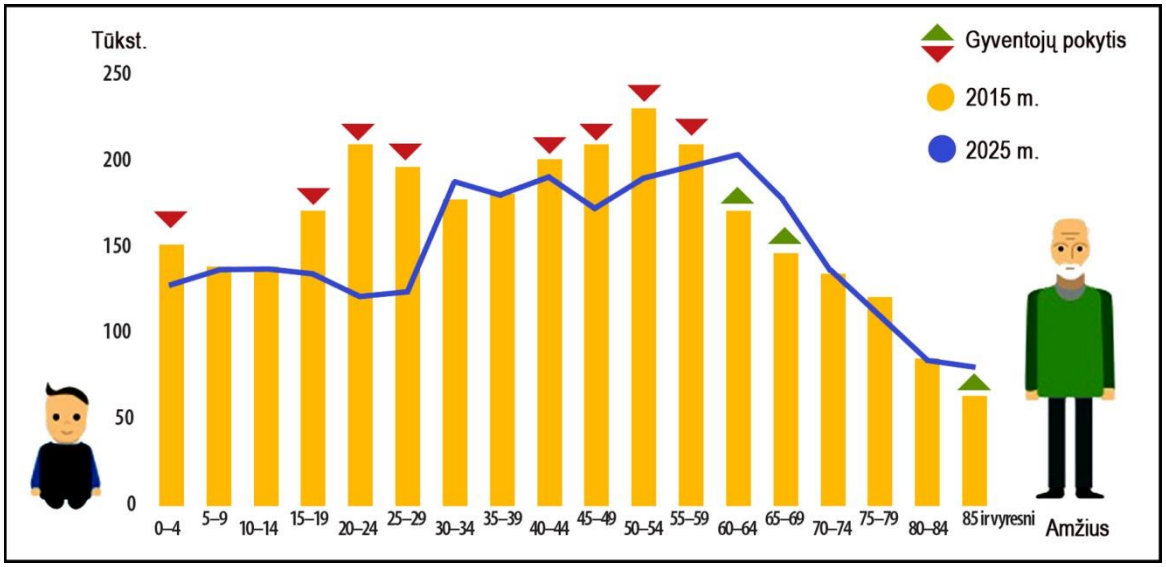

Pagal http://www.slideshare.net

B šaltinis. *Gyventojų skaičiaus pokytis (proc.) Lietuvos savivaldybėse 2011–2016 m.*

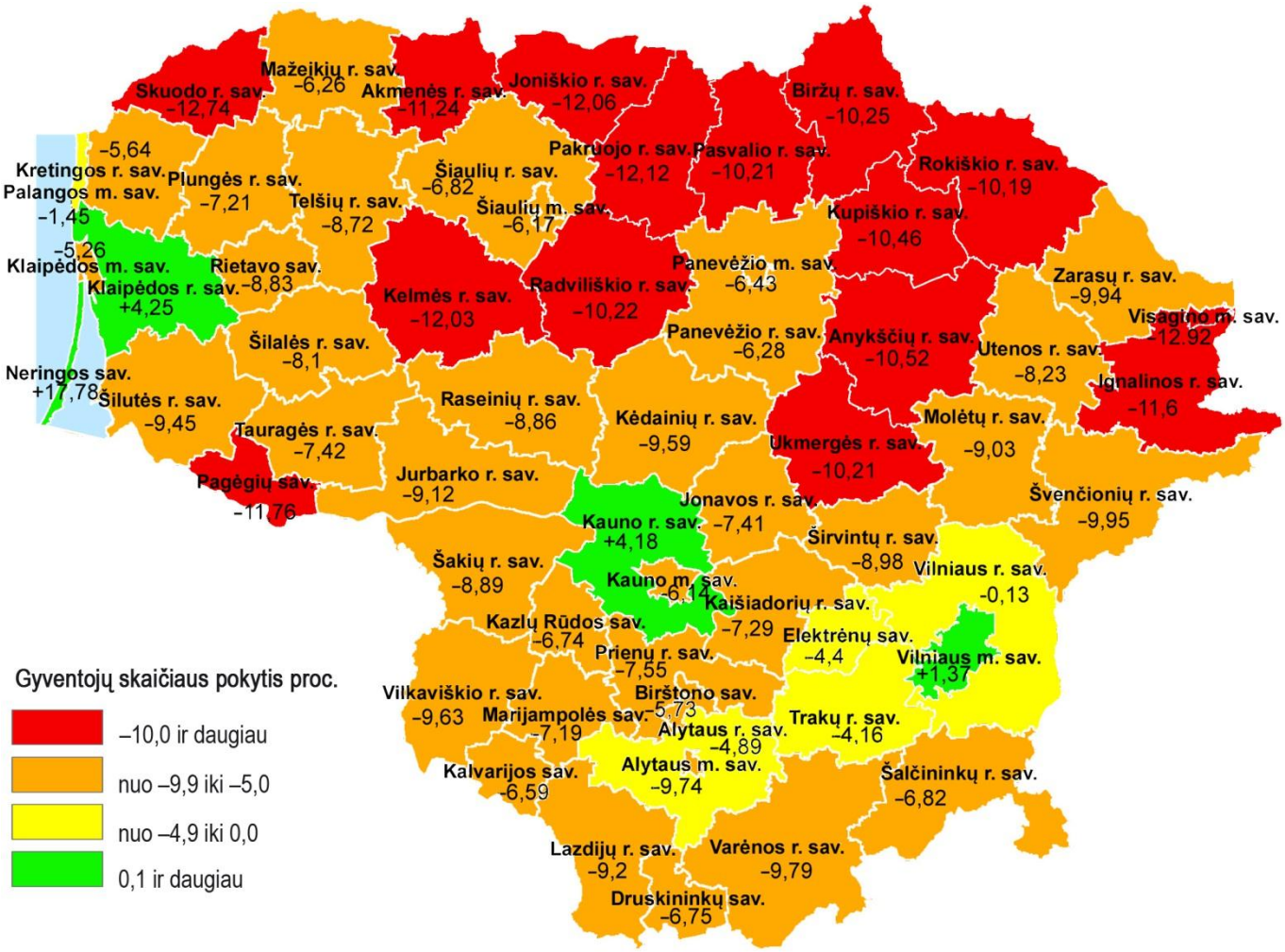

Pagal Lietuvos statistikos departamento duomenis.

C šaltinis. *Lietuvos demografiniai rodikliai 2013–2015 m.*

Metai	Gyventojų skaičius (metų pradžioje), tūkst.	Gimė, tūkst.	Mirė, tūkst.	Migracija	
				Emigravo, tūkst.	Imigravo, tūkst.
2013	2971,9	29,9	41,5	38,8	22,0
2014	2943,5	30,3	40,2	36,6	24,3
2015	2921,3	31,4	41,8	44,5	24,3

Pagal leid. „Demografijos metraštis, 2015“, Lietuvos statistikos departamentas, Vilnius, 2016.

28.1. Naudodamiesi B šaltiniu, išrinkite tris Lietuvos miestų ir rajonų savivaldybes, kuriose per pastaruosius metus gyventojų skaičius didėjo. Nurodykite kiekvienos savivaldybės (-ių) gyventojų skaičiaus didėjimo priežastį.

Savivaldybė (-ės)	Gyventojų skaičiaus didėjimo priežastis
.....	.....
.....	.....
.....	.....

(6 taškai)

28.2. Remdamiesi A šaltiniu, įvertinkite Lietuvos gyventojų amžiaus prognozę ir nurodykite, kaip gali pasikeisti darbingo amžiaus gyventojų sudėtis 2025 metais.

Juodraštis

.....

.....

(1 taškas)

28.3. Kokį demografinį procesą A šaltinyje vaizduoja į viršų nukreiptos rodyklės?

Juodraštis

.....

(1 taškas)

28.4. Kuris veiksnys daro didžiausią įtaką gyventojų skaičiaus mažėjimui Lietuvoje (C šaltinis)? Pagrįskite savo pasirinkimą ir nurodykite po vieną socialinę ir ekonominę šio veiksnio priežastį.

Juodraštis

Veiksnys .....

Pagrindimas .....

.....

Priežastys:

Socialinė .....

Ekonominė .....

(4 taškai)

29 klausimas. Naudodamiesi šaltiniais (A ir B) bei žiniomis, atlikite užduotis.

A šaltinis. *Atolo susidarymas*

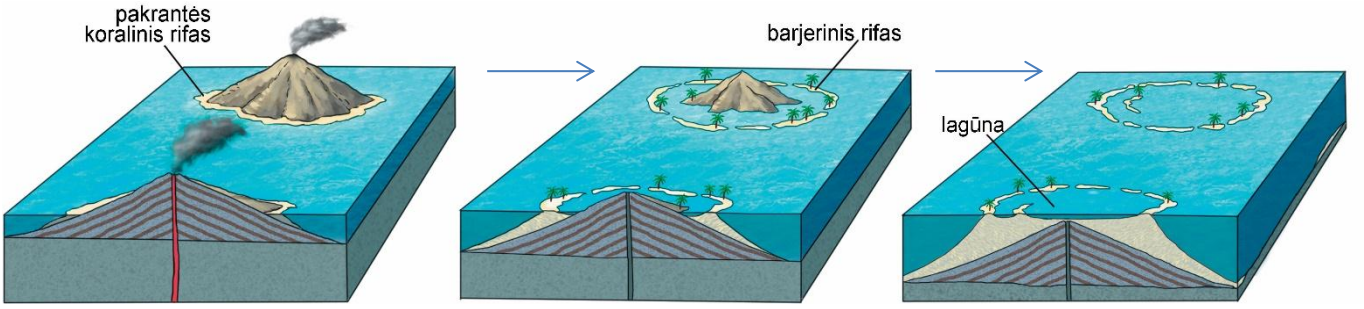

1 **2** **3**

Pagal leid. R. Šalna ir kt., „Gaublys. Gamtinė geografija“, vadovėlis 11–12 kl., Didakta, 2011.

B šaltinis. *Atolas Mikronezijoje*

https://en.wikipedia.org

29.1. Kokios kilmės yra A šaltinio 3 paveiksle ir B šaltinyje pavaizduotos salos?

Juodraštis

.....

(1 taškas)

29.2. Šaltiniuose pavaizduotos salos formuojasi tik tropinėse platumose (tarp atogrąžų). Kodėl tokių salų nėra vidutinių platumų jūrose ir vandenynuose? Nurodykite dvi priežastis.

Juodraštis

1. .....

2. .....

(2 taškai)

29.3. Dauguma tokių salų priklauso ekonomiškai silpnoms šalims. Pastaruoju metu daugelyje salų pradėta plėtoti paslaugų sfera. Nurodykite, kokia bioprodukcinio ūkio šaka yra tradicinė šiose salose ir kokia paslaugų sfera vis labiau plėtojama.

Juodraštis

Tradicinė šaka .....

Paslaugų sfera .....

(2 taškai)

29.4. Kodėl kai kuriose salose gyvenantys žmonės vieni pirmųjų pasaulyje jau susiduria su klimato atšilimo padariniais?

Juodraštis

.....

(1 taškas)

30 klausimas. Naudodamiesi paveikslu ir žiniomis, atlikite užduotis.

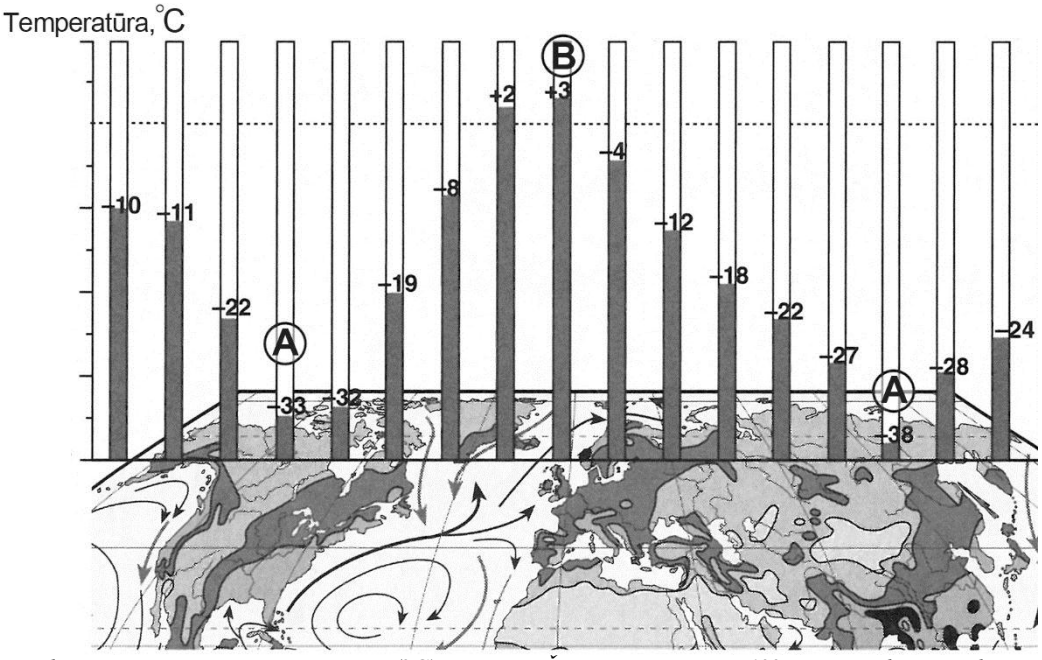

Vidutinė mėnesio oro temperatūra (°C) įvairiose Žemės vietose ties 60° šiaurės platumos lygiagrete

Pagal leid. „Koulun Maantieto. Maapallo“, Lukio 1, Otava, Keuruu, 2000.

30.1. Kurio metų laiko vidutinė oro temperatūra pavaizduota paveiksle?

Juodraštis

.....

(1 taškas)

30.2. Kuris klimato tipas vyrauja A raide pažymėtose vietovėse? Nurodykite du šiam klimato tipui būdingus orų bruožus.

Juodraštis

Tipas .....

Bruožai:

1. .....

2. .....

(3 taškai)

30.3. Kuris klimato tipas vyrauja B raide pažymėtoje vietovėje? Nurodykite du šiam klimato tipui būdingus požymius žiemos laikotarpiu.

Juodraštis

Tipas .....

Požymiai:

1. .....

2. .....

(3 taškai)

30.4. Kuris svarbiausias veiksnys lemia B raide pažymėtos vietovės klimatą? Įvardykite dvi Europos valstybes, kurioms būdingas toks klimato tipas.

Juodraštis

Veiksnys .....

Valstybės: 1. ..... 2. .....

(3 taškai)

31 klausimas. Naudodamiesi šaltiniais (A, B ir C) bei žiniomis, atlikite užduotis.

A šaltinis. *Amerikiečių brangios sportinės avalynės koncerno gamyklų skaičius ir pasiskirstymas pasaulio valstybėse*

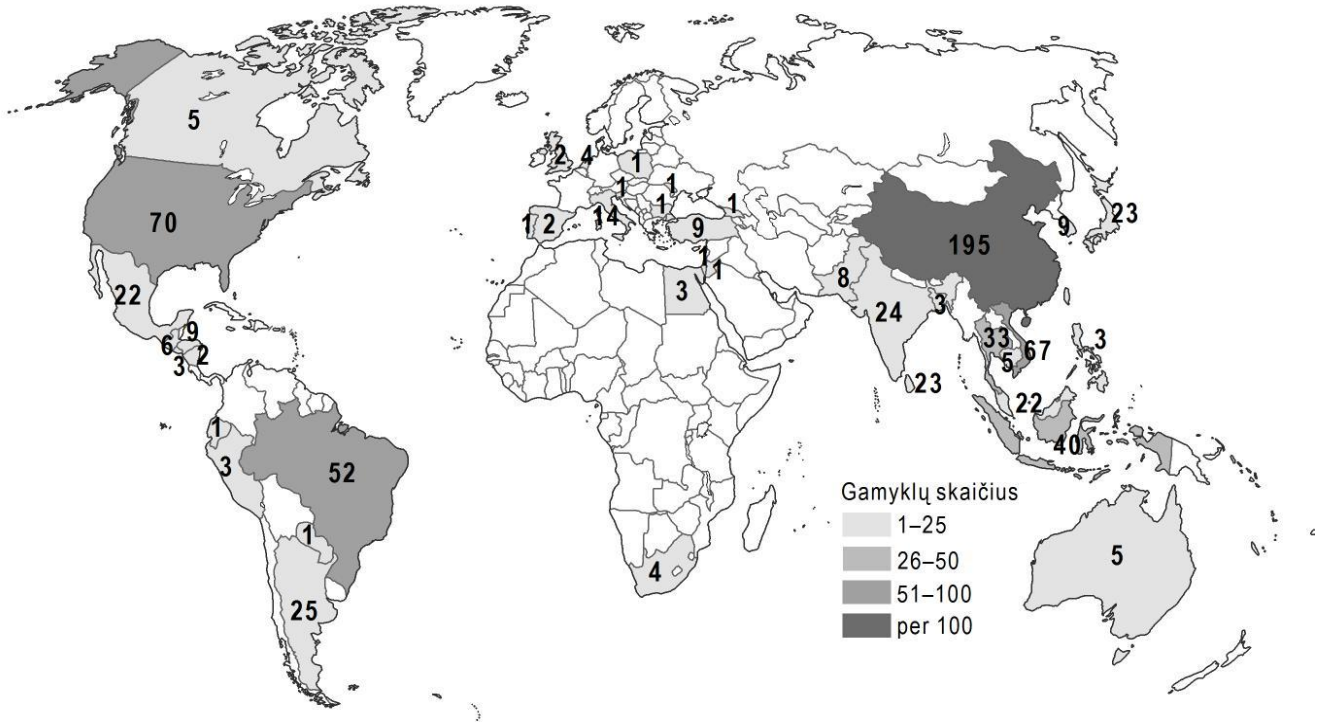

Pagal leid. „Durchblick“, Erdkunde 9/10, Westermann GmbH, Braunschweig, 2014.

B šaltinis

[...] 2015 metais stebimas didžiausios pagal gyventojų skaičių šalies ekonomikos augimo sulėtėjimas. Kaip bus toliau, priklausys ne tik nuo rinkos jėgų, bet ir nuo šalies valdžios, kuri nuolat kontroliuoja rinkos sąlygas šalyje. Nėra abejonės – sunkumai šioje rinkoje yra laikini, o vidutinėje ir ilgalaikėje perspektyvoje rinka vis tiek išliks viena sparčiausiai augančių pasaulyje. Kartu joje vyks didžiausias vidutinės klasės ir vartojimo prieaugis. Todėl plėtrą į šią rinką reikėtų vertinti labiau strategiškai ir jos nenustumti visiškai į šalį.

Pagal www.danskebank.lt

C šaltinis. *Sportinės avalynės kainos struktūra*

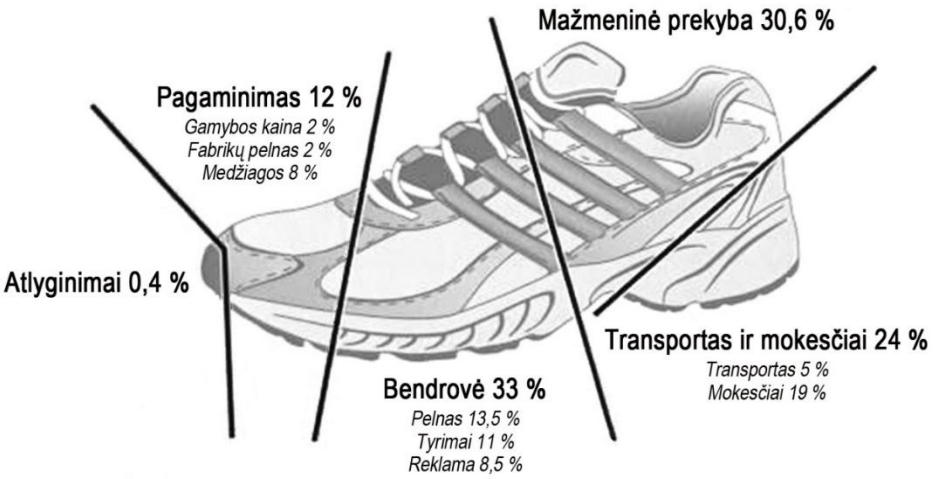

Pagal leid. „Durchblick“, Erdkunde 9/10, Westermann GmbH, Braunschweig, 2014.

31.1. Įvardykite valstybę, kurioje amerikiečių sportinės avalynės koncerno gamyklų skaičius yra didžiausias (A šaltinis). Remdamiesi B ir C šaltiniais bei žiniomis, pateikite po du gamybos toje valstybėje privalumus ir trūkumus.

Juodraštis

Valstybė .....

Privalumai:

1. .....

2. .....

Trūkumai:

1. .....

2. .....

(5 taškai)

31.2. Nurodykite valstybę, iš šios avalynės gamybos gaunančią daugiausia pajamų (A ir C šaltiniai). Pagrįskite savo pasirinkimą.

Juodraštis

Valstybė .....

Pagrindimas

.....

.....

(2 taškai)

31.3. Kodėl Vakarų Europoje yra mažai šios amerikiečių sportinės avalynės koncerno gamyklų (A šaltinis)?

Juodraštis

.....

(1 taškas)

31.4. Remdamiesi A šaltiniu ir žiniomis, nurodykite, kuriame žemyne gyventojų skaičius sparčiai auga, bet aptariamo amerikiečių sportinės avalynės koncerno gamyklų yra mažai. Parašykite dvi priežastis, kodėl šiame žemyne yra taip mažai šio koncerno gamyklų.

Juodraštis

Žemynas ..... Priežastys: 1. .....

..... 2. .....

.....

(3 taškai)

32 klausimas. Naudodamiesi šaltiniais (A, B ir C) bei žiniomis, atlikite užduotis.

A šaltinis. *Upės darbas aukštupyje*[1]*, vidurupyje*[2] *ir žemupyje*[3]

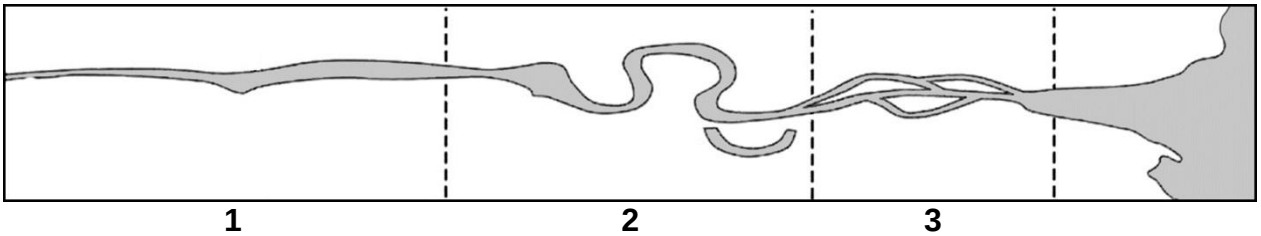

Pagal leid. „GEO, Oberstufe Geographie“, Cornelsen, Volk und Wissen, 2007.

B šaltinis. *Upės vagos skersinis pjūvis*

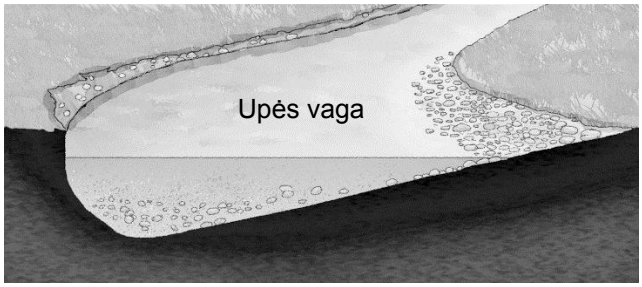

Pagal leid. R. Šalna ir kt., „Gaublys. Gamtinė geografija“, vadovėlis 11–12 kl., Didakta, 2011.

C šaltinis. *Upės tėkmės schema*

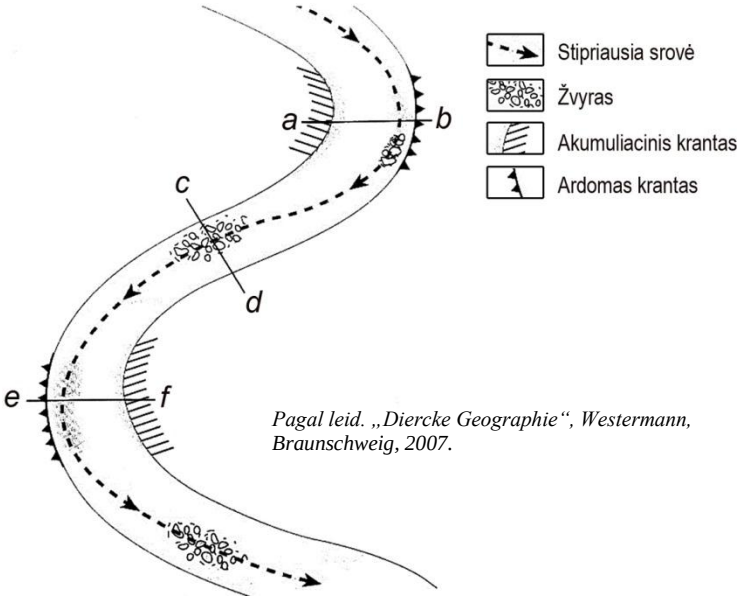

Pagal leid. „Diercke Geographie“, Westermann, Braunschweig, 2007.

32.1. Kuriuo skaičiumi (1, 2 ar 3) A šaltinyje pažymėtas žemupys? Parašykite tris žemupio ypatumus.

Juodraštis

Žemupys ..... Ypatumai: 1. .....

2. ..... 3. .....

(4 taškai)

[1] aukštupys – верховье реки – górny bieg rzeki
[2] vidurupis – среднее течение реки – środkowy bieg rzeki
[3] žemupys – низовья реки – dolny bieg rzeki

32.2. Paaiškinkite, kodėl vidurupyje pradeda formuotis meandros.

Juodraštis

.....

.....

(1 taškas)

32.3. Kurioje upės dalyje nuo ištakų iki žiočių dugninė erozija yra stipriausia? Paaiškinkite šį dėsningumą.

Juodraštis

Erozija stipriausia ..... Paaiškinimas .....

.....

(2 taškai)

32.4. Išnagrinėję B ir C šaltinius, priskirkite upės vagos skersinį pjūvį (B šaltinis) jį atitinkančiai vietai C šaltinyje. Pagrįskite savo pasirinkimą.

Juodraštis

Pjūvį atitinkanti vieta ..... Pagrindimas .....

.....

(2 taškai)

33 klausimas. Naudodamiesi šaltiniais (A, B ir C) bei žiniomis, atlikite užduotis.

A šaltinis. *Indijos regionų žmogaus socialinės raidos indeksas (ŽSRI) 2014–2015 m.*

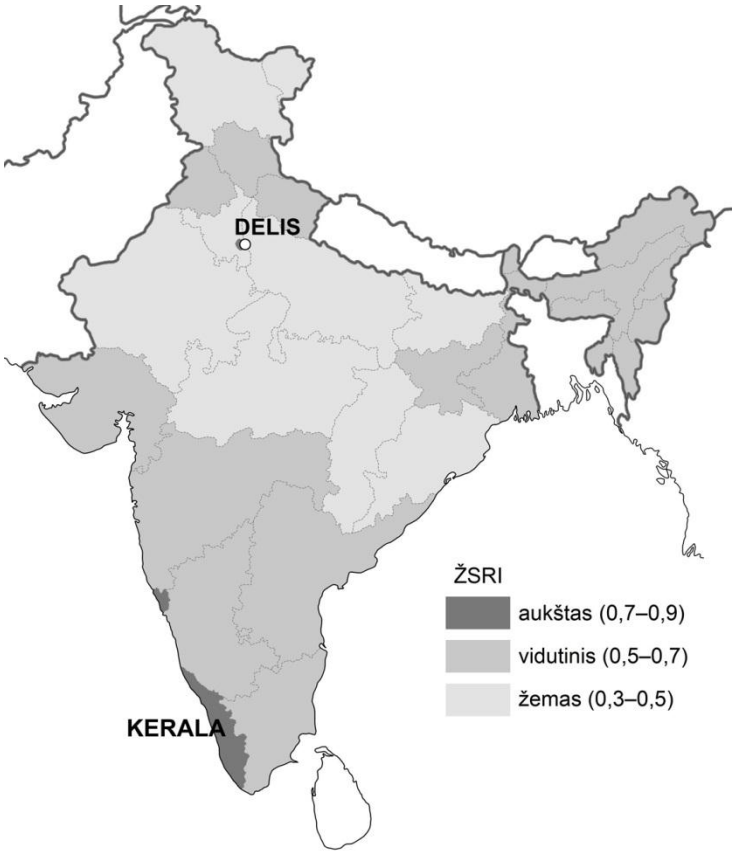

Pagal https://en.wikipedia.org

B šaltinis

Keralos valstijoje labai daug dėmesio skiriama informacinių technologijų (IT) plėtrai. Šioje valstijoje veikia daug IT kūrimo ir aptarnavimo centrų. Daugiausia darbo vietų sukuria įmonės „TechnoPark“ ir „Infopark“ – 2014 m. jos atnešė daugiau kaip trečdalį valstijos pajamų. Šioje Indijos valstijoje savo biurus turi tokie programinės įrangos milžinai kaip „Infosys“, „Oracle“, „Tata Consultancy Services“, „HCl Technologies“, „UST Global“ ir „SunTec“. Tarptautinės bendrovės čia kuriasi dėl palankių sąlygų: angliškai kalbanti kvalifikuota darbo jėga, palyginti neaukštas darbuotojų atlyginimas ir didžiulė vidaus rinka. Savo veiklą šioje valstijoje greitai pradės trečiasis IT centras „Cyberpark“, o Kočio mieste jau plėtojamas naujas „Išmaniojo miesto“ projektas.

Pagal https://en.wikipedia.org

C šaltinis. *Ekonominiai ir socialiniai rodikliai 2013–2015 m.*

Rodiklis	Keralos valstija	Indija	Jungtinė Karalystė
BVP 1 gyv. (JAV dol.)	8173	6200	27 000
Suaugusiųjų raštingumas (%)	91	58	98
Gyvenimo trukmė (metais)	71	64	79
Kūdikių mirtingumas (‰)	12	65	7
Gimstamumas (‰)	1,8	3,1	1,7
ŽSRI	0,790	0,608	0,907

Pagal http://statisticstimes.com

33.1. Apibūdinkite Indijos gamtinę geografinę padėtį. Nurodykite du bruožus.

Juodraštis

1. .....

2. .....

(2 taškai)

33.2. Palyginę Keralos valstijos ir visos Indijos socialinį ir ekonominį išsivystymo lygį, pateikite po du Keralos valstijos socialinius ir ekonominius ypatumus (A, B ir C šaltiniai).

Juodraštis

Socialiniai ypatumai:

1. .....

2. .....

Ekonominiai ypatumai:

1. .....

2. .....

(4 taškai)

33.3. Įvardykite, kuris pramonės sektorius Keralos valstijoje labiausiai išplėtotas ir nurodykite dvi priežastis, kodėl taip yra.

Juodraštis

Pramonės sektorius .....

Priežastys:

1. .....

2. .....

(3 taškai)